一級建築士　設計製図課題　答案用紙①

(1)1階平面図兼配置図(縮尺1/200)

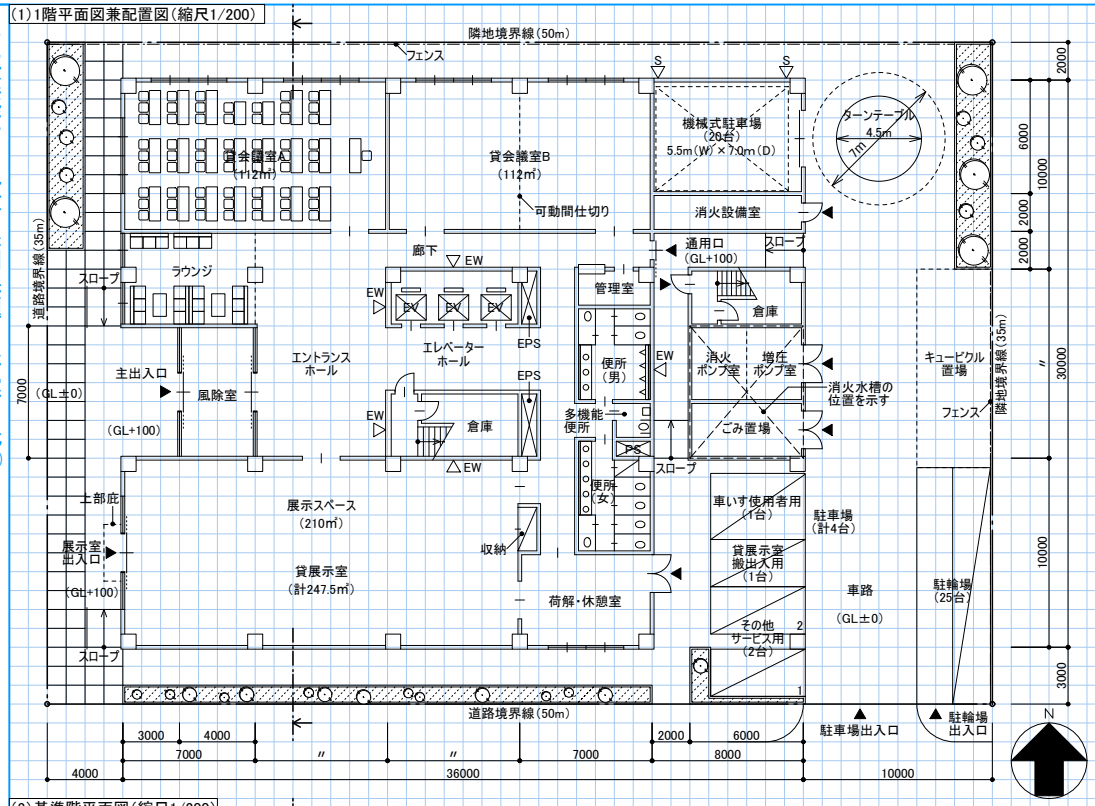

(2)基準階平面図(縮尺1/200)

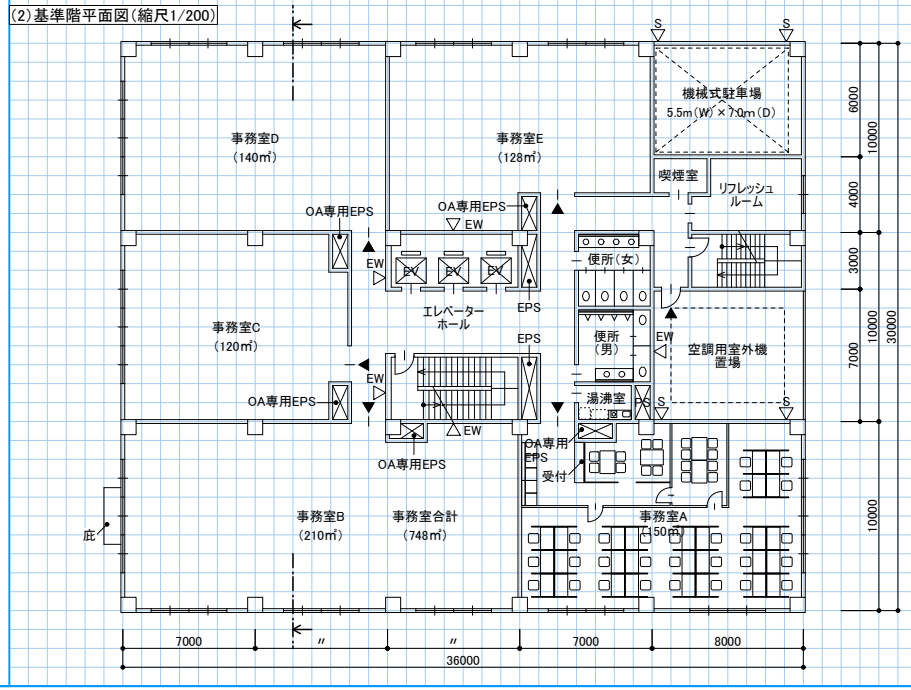

(3)基準階梁伏図(縮尺1/200)

凡例

C1(RC)	800×800
G1(RC)	B×D=350×700
G2(RC)	B×D=500×900
B1(RC)	B×D=300×600

特記なき限り，壁はW=150とする．
EW1は耐力壁を示し，W=180とする．
EW2は耐力壁を示し，W=250とする．
特記なき限り，スラブはt=150とする．

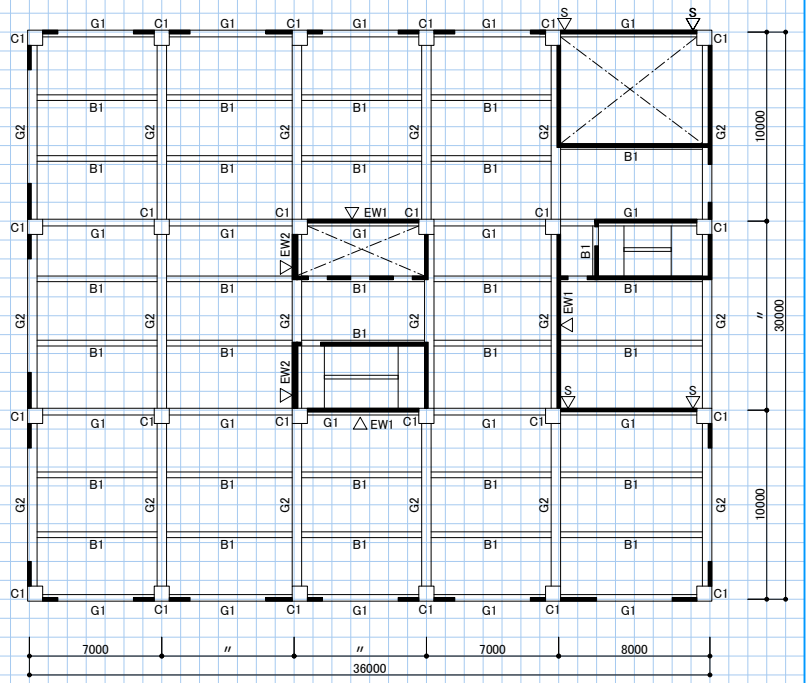

(4)断面図(縮尺1/200)

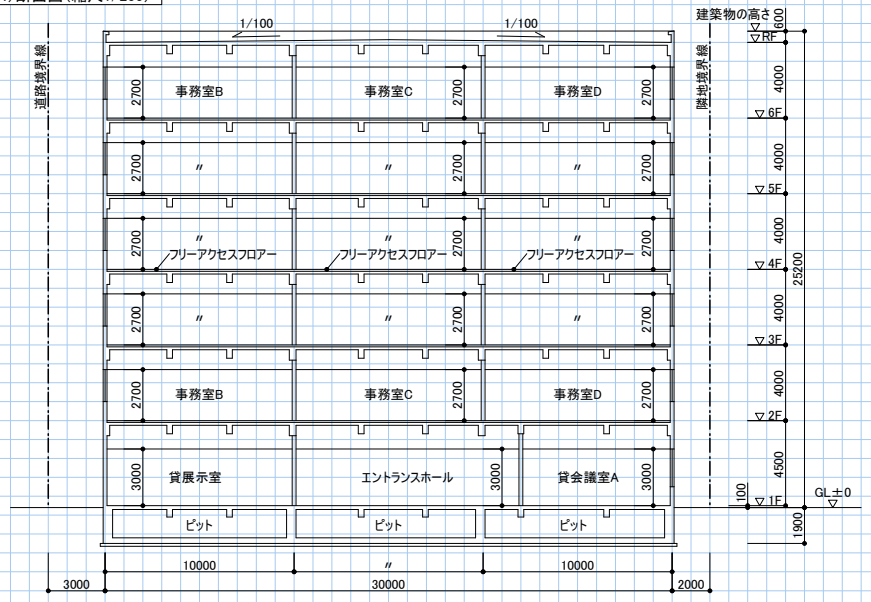

面積表(算定式は，床面積の算出過程がわかるものであればよい．また，算出結果は，小数点以下第1位までとし，第2位以下は切り捨てる．			合　計
基準階(2～6階)	(36×30－8×6(機械式駐車場)－8×7(空調室外機置場))×5	4,880.0 ㎡	
1　階	28×30＋6×10＋8×2(消火設備室)－3×7(風除室前ピロティ)	895.0 ㎡	
機械式駐車場	15(㎡)×20(台)	300.0 ㎡	6,075.0 ㎡
レンタブル比	3,740(事務室合計)÷6,075×100	61.5 %	